Per

Disegnare Orologi Piani Orizontali & pigliare

la declinat.e de' Muri & li Vertticali

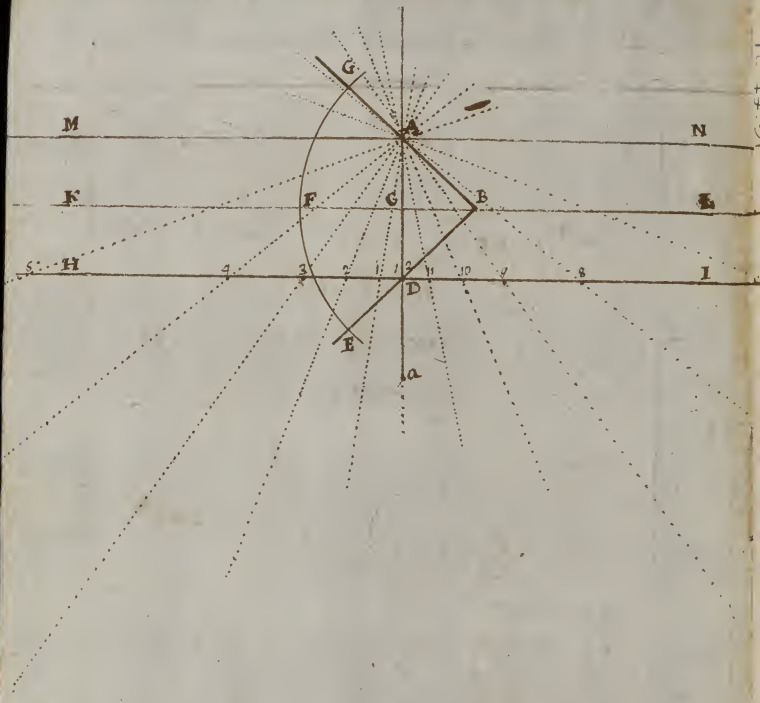
G
A
M
N
K
F
C
B
H
5
4
3
2
1
1
2
10
9
8
I
D
E
a

Come si deferiva l'Orologio Italiano orizontale col benefizio dell'Astronomico

Trat.to 12

Igitt. 76 Philip Pinsof

Osservi la fig: 2 cioè l'Orologio Astronomico, fatto secondo le regole della pratica 11, che è regola che più servirà a tutti i Paesi del mondo tra la Zona torrida, e la Zona frigida ed anco più oltre. Descritto dunque l'Orologio Astronomico, e trovati li gradi delle ore antemeridiane, e postmeridiane nella linea Equinoziale, con la più esatta diligenza come nella pratica 10, e descritti i Tropici come nella pratt.ca antecedente, ed in particolare ritrovato il grado a, nella linea meridiana qual deue essere tanto lontano dal D, quanto è lontano il B, dal medesimo D, onde DB, e Da, sieno uguali. Pigliarà la distanza che è trà il grado a nella Meridiana, ed il grado dell'ora 5. ouero settima nella linea Equinoziale, e trasportata dal centro A sopra la linea del ora sesta AM, a sinistra, ed aurai il grado segnato 5. nel quale, e è il grado 5 nell'Equinoziale segnerai la linea delle ore ventitre, Italiane, cioè delli Tropici come vedi nella fig: 2

Per la linea delle ore 22 prendi la distanza trà il 4 nella Meridiana ed il 4 nell'Equinoziale, e trasportata

dall'A centro dell'orologio sopra la linea dell'ora sesta a sinistra, ed aurai il pto 4, per il quale, e per il 4 nell'Equinoziale segnerai la linea delle ore 22 Italiane.

Per la linea delle 21 prendi la distanza trà l'a, ed il #o 3 nell'Equinoziale, e la trasporterai nella linea dell'ora sesta a sinistra, dal centro A, ed aurai il pto 3 per questo, e per il 3 nell'Equinoz.le tirerai la linea delle ore 21.

Per la linea delle ore 20 piglia la distanza trà l'a ed il pto 2 nell'Equinoz.le, e trasferisci qta distanza come sopra dal centro A verso sinistra, ed aurai il pto segnato 2, e il qto e'l il pto 2 nell'Equinoz.le segnerai la linea delle ore 20.

Per la linea delle 19 prendi la distanza trà l'a ed i pto 1 e la trasferirai come sopra, ed aurai il pto 1 nella linea AM, e per il pto 1 nell'Equinoz.le segnerai la linea 19.

Per le 18 prendi la distanza a, e D, ouero 12 nell'Equinoziale, e trasferendola come sopra aurai il pto 12, e il qto e'l il pto 12 nell'Equinoz.le tirerai la linea 18.

Per auere le 17. 16. 15. non si piglia più distanza alcuna per portarla nella linea dell'ora sesta a sinistra, perchè

li punti già trouati seruono seruono à segnare ancora le
linee delle ore 11-10-9-8-7 passando ordinariam.te
gli gli 11.10.9.8.7 segnati nella Equinoziale verso
destra.

Per la linea delle ore 12 Ital.a si pigli la metà tra il detto
A centro dell'orologio, e D pto nella Merid.a per lo quale pas
sa l'Equinoz.le qual metà sia A.o sarà il pto C. e questo
pto segna la linea CBL in parallela all'Equinoz.le e questa
sarà la linea delle ore 12.

Per auere le ore 11 pigliarai la distanza tra A centro dell'
orologio, e S pto nella linea dell'ora sesta doue passa la
linea delle 23, ed aurai dal centro A nella stessa linea del
ora sesta a destra il 1.o S. gli gle e gli pto S nell'Eq.le
tirarai la linea delle ore 11.a

Per auere le 10 pigli la distanza tra A, e 4 pto nella linea
dell'ora sesta a sinistra, e trasferirai questa distanza
a destra nella linea dell'ora sesta che aurai il pto 4.to
il quale e gli 4 nell'Equinoz.le tirarai la linea delle ore
10 Italiane seguire principiando a segnare dalli 12 gli
come nella fig.a 2.da ed aurai compito l'orologio Italiano or
dinario che camina come sud.o dell'Italia.

A fine, che riesca più facile la descrizione dell'orologio Italiano ordinario orizontale sopra l'orologio Astronomico s'esponi la Tavola prima nella quale i numeri che sono sotto la Lett.a H, sono l'ore Italiane, che principiando dalle 23 vanno calando sino alle 8. che è più facile descriv.e l'orlog.o orizont.e dalle ore ultime, che dalle prime. Il secondo ordine de numeri con la Lett.a sotto Æ, sono i numeri delle ore astronomiche nella Linea Equinoziale a sinistra della Meridiana. Il Terz'ordine, che contiene li stessi numeri accompagnati con la Lett.a A sono li numeri della Linea delle ore sesta, che distano li gr.i trouati con le distanze dal gr.o a, e li numeri della seconda colonna nella Linea Equinoziale. Il Quart'ordine, è un ordine che contiene numeri eguali, a due, a due, e questi distanti quanti gr.i per li quali devono passare le Linee orarie nella Linea dell'ora sesta, e l'Equinoziale.

Devi dunque imaginarti che la Tavola, con muto linguaggio parlando ti dica, che se vuoi la Linea delle venticinq.a Italiane devi pigliare la distanza dal gr.o a nella Meridiana, o il 5 nell'Equinoz.e, e trasportarla da A Centro

dell'orologio sino al s nella linea dell'ora sesta a sinistra, e tirerà la linea y i fatti s-s, sarà la linea delle ore 23.

Se vorrai la linea delle ore 22 piglia la distanza a-A, e trasferiscila in A-4, e poi tira la linea 4-A e sarà la linea delle ore 22, e così delle altre sino alle 13.

La linea delle ore 12 ha da essere nel mezzo, tra la linea del ora sesta, ed Equinoziale come di sopra di sopra.

Se li vorrai con la distanza a-s ma trasferita a destra dal pto A come ti dimostra la lettera D, posta nella tavola, e tirata la linea y il s nel Equinozio, e il s nell ora sesta, principiando dal Tropico di 9; ella sarà la linea delle ore 11, e così delle altre.

H	Æ	
23-a5	A-5	5.5
22-a4	A-4	4.4
21-a3	A-3	3.3
20-a2	A-2	2.2
19-a1	A-1	1.1
18-a12	A-12	12.12
17-a11	A-11	11.11
16-a10	A-10	10.10
15-a9	A-9	9.9
14-a8	A-8	8.8
13-a7	A-7	7.7
12 media	AD dritta	
11-a5D	A-5	5.5
10-a4D	A-4	4.4
9 —	— —	
8 —	— —	

Modo di disegnare l'Orologio Italiano Orizontale che mostri l'ore mezz'ore doppo l'Ordinario e si conformi con l'ore delle Torri;

Prat.ª 73

Disegnato l'Orologio fig: 2. Per ritrouare le mezze ore astronomiche s'osserui la Tauola seconda. Vedrai nella prima riga, che incomincia a 7. D $6\frac{1}{n}$. S $\frac{1}{n}$ si uuol significar che se prenderai la distanza dal a al 7 fig: 2, e tenendo ferma una punta del compasso in 7 a destra darai il gto segnato $6\frac{1}{n}$, e a sinistra il gto delle mezz'ore astronomica, cioè il gto delle $6\frac{1}{n}$ doppo mezza notte, e le mezz'ore doppo mezzo giorno perche il D, nella tauoletta significa a destra, e l'S a sinistra, e le Lettere sopra di medesima tauoletta P. m. n significano le ore doppo mezza notte, il P. m. significano le ore, post meridiem.

Così parimenti le Lett.e della seconda riga a 9, D $7\frac{1}{2}$ S $1\frac{1}{n}$ significano che con la distanza a 9. stando fermo il compasso in 9 a destra darai $7\frac{1}{2}$, e a sinistra $1\frac{1}{n}$; e con la distanza a 11 stando fermo con il compasso in 11 a destra darai $8\frac{1}{n}$ e a sinistra $2\frac{1}{n}$. Trouarai con quest'ordine tutti li gti delle Mezz'ore disegnerai l'orologio a Campana Fig: IIII.

P.m.	n	P.m.
a 7	D $6\frac{1}{n}$	S $\frac{1}{n}$
a 9	D $7\frac{1}{2}$	S $1\frac{1}{n}$
a 11	D $8\frac{1}{n}$	S $n\frac{1}{n}$
a 1	D $9\frac{1}{n}$	S $3\frac{1}{n}$
a 3	D $10\frac{1}{n}$	S $4\frac{1}{n}$
a 5	D $11\frac{1}{n}$	S $5\frac{1}{n}$

Tauola Seconda

Prendi dunque la distanza da a nella Meridiana, e s 1/2 nell'Equinoziale, e la trasferirai da A centro del orologio verso sinistra sopra la linea dell'ora sesta avrai il pto 5 nella linea g il quale, e g il s 1/2 nell'Equinoziale tirerai la linea retta delle ore 23.

Parimente se trasferirai la distanza a 4 1/2 nella linea dell'ora sesta a sinistra avrai il pto 4 g il quale, e g il 4 1/2 nell'Equinoz.le avrai la linea delle ore 22, e col medesimo ordine segnerai le altre sino alla linea delle ore 18. la quale si tira nella linea dell'ora sesta per il pto segnato 12. trouato con la distanza a 1/2 le 17 si tirano anch'esse g il pto segnato 12 nella linea dell'ora sesta, e g il pto 11 1/2 nell'Equinoziale. La linea delle 16 passa per il pto 1. ouero 10 nella linea dell'ora sesta, e g il pto 10 1/2 nell'Equinoziale, e così proporzionalmente si deue dire delle altre linee orarie 15. 14. 13. e 12 le quali (parte delle 12) passano le 6 1/2 nell'Equinoz.le a destra, e g 5. ouero 6 nella linea dell'ora sesta a sinistra. Le 11 passano le 5 1/2 nella Equinoz.le a sinistra, e g il 5 1/2 nella linea dell'ora sesta a destra. Le 10 passano per il pto 4 1/2 nell'Eq.le a sinistra, e g le pto 4 1/2 nella linea dell'ora sesta a destra. Le 9 per il 3 1/2 nell'Eq.le a sinistra, e il 3 1/2 nella l.a dell'ora 6 a destra.

Avverto, che li ptì nell'ora sesta a destra 3 ½ . 4 ½ . 5 ½ sono tanto distanti dal centro A, quanto sono distanti li ptì 3 . 4 . 5 nell'ora sesta a sinistra, e tanto basti avendo detto sufficientem.te. Acciò ogn'uno possa descrivere l'oro-logio Orizont.le a campana. Descritto l'orologio si origa nel ptò C, nella Meridiana lo stile della lunghezza CB, il quale faccia angoli retti in C qual stile sia acumi-nato, non di ferro ma d'Ottone acciò quando si vuole collocare l'orologio al suo conveniente sito, col bene-ficio della Calamita l'ago possa moversi liberam.te. L'uso dell'orologio orizz.le è collocarlo sopra qualche piano che sia ben livellato, e la ptà della Meridiana dov'è la Lettera a ovvero il Tropico di ♑ guardi Tramontana, e l'altra parte opposta, dov'è il centro dell'orologio, cioè il ptò A, guardi giusto il mezzo giorno. . .

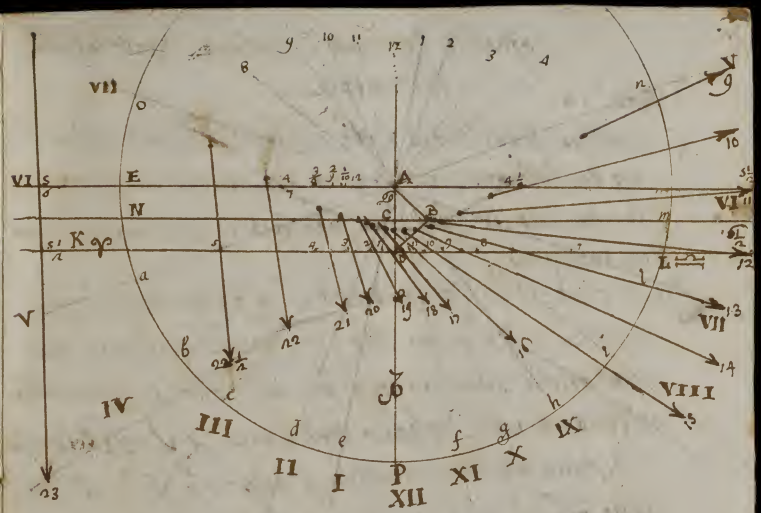

Figura quarta

Come si deferiua l'Orologio Babilonico
Orizontale

Pratt.° 1A

L'Orologio Babilonico, è quello che mostra le ore secondo l'uso de Babilonesi, cioè. indica quante ore sieno scorse, da che leuò il sole; onde principia la prima ora al leuar del medesimo

Questo orologio si fa in. tutto & per tutto, come si fà l'Italiano ordinario. Solo quello bisogna osseruare, che tutte quelle linee, e quei pti. che sono a destra della Meridiana nell'Italiano ordinario, & il Babilonico si deuono fare a sinistra, e tutto quello che nell'Italiano ord.° si fa a sinistra, & il Babilonico si fa a destra. In una parola sola si faccia un'orologio Italiano ordinario in Carta, e poi si segnino le linee orarie visibili nella pte posteriore di essa carta, che questo sarà l'orologio Babilon.°, li numeri alle linee orarie facilm.te si segnano, che la lin.a delle 23 serue & l'ora prima quella delle 22 serue la seconda, quella delle 21 la terza, quella delle 20 la quarta, quella delle 19 la 5.a e così delle altre. Le segnerai dunque con quest'ordine, ed auerai un orologio Babilonico giustissimo,

senza minima fatica, giacchè l'Italiano rovesciò serue, ed è in fatti Babilonico. Dico il rovesciò del Italiano che finisce le 24 al tramontar del Sole; non già di quello che finisce le ventiquattro alli cinque di.

Segue la maniera di descrivere
Orologi verticali Mu:
rali

Avvertirti molto utili & quelli che vorranno disegnare pratticam.te Orologi solari sopra muri massime se sono principianti.

Chi volesse fare orologi piccolissimi, si faccia un circolo, ed un quadrante piccolis.o, perche il semidiametro del circolo, ed il lato del quadrante devono sempre essere minori dello stilo: se bene chi averà ingegno potrà descriverli anco col compasso, facendo il circolo nel muro, o in carta, e il quadrante valerà, o del medesimo circolo, o d'altro quadrante di ottone o in carta &

Avanti di mettersi a cim.to di disegn.re Orologi sopra Muri è necessario esercitarsi molto bene in camera tanto circa il pigliare la declinatione de' Muri, gio circa il disegnare Orologi: onde ne faccia prima di molte declinationi, che poi così riuscirà in publico con onore, ed imparerà a conoscere gio s'Orologio è ben descritto, o nò, ed imparerà anco a conoscere da qual lato del nicchio debba eleggere lo stilo se a destra o a sinistra, poiche in mezzo al nicchio non si suole colocare, se non gio il muro o non declina, o declina poco.

Quando il muro declina verso oriente sarà sempre più co-
modo principiare a disegnare le ore prime della mattina: ma
quando il muro declinasse verso occid.te sarà sempre più como-
do principiare a disegnare le ultime, e descriverne gli
ponno capire in quella facciata.

Il cerchio s'attacchi nel muro non già con un chiodo
rozzo, ma con un ago d'acciajo de più grossi, acciò il cen-
tro non si guasti ma si conservi lungam.te

La Declinatione io consiglio sempre prenderla col sole
nel modo che insegnerò, e il tempo lo permette.

Il modo più sicuro di trovare e conoscere la declinaz.ne de muri
sarebbe prenderla il giorno delli Equinozj cioè li 21 Mar-
zo, e li 23 sett.e notando nel muro la Mattina il pto
estremo del ombra dello stilo, e la sera un altro pto
pur estremo dell'ombra dello stilo, tirando una li-
nea retta che passi per quei due pti, che sarà la vera
linea Equinoziale, e se si produrrà questa linea fin-
che tagli la linea orizontale, che passa per il loco dello
stilo, s'avrà il pto per il qle chi volesse un filo sino

all agiue dello stilo, aurebbe nel agiue medesimo dello stilo l'angolo della declinatione.

Come si ritrovi la declinatione de' Muri con l'ombra del sole.

Per la Pratica 8. c. 9 troverai in qualche piano o muralo, o verticale, ma il meglio sarebbe sopra il muro stesso nel quale voi dipingere l'orologio la linea meridiana, la quale ti darà la regola g. aggiustare il circolo nella debita positione g. far l'orologio, ed anco sapere gli gradi e a qual parte declini il medesimo muro. Per modo d'esempio nella fig: 18 supponiamo che quel foglio sia il muro del quale si cerca la declinatione: segnata la linea orizontale GH, elleggerai in esso il becco dello stilo F, sopra il quale a dritta linea troverai il gio E, centro del circolo, qual gio E deue esser tanto alto sopra l'F gio lungo deue esser lo stilo, dipoi pianterai lo stilo in F di maniera che faccia angoli retti col muro cioè a squadra, aggiusterai medesimam.te il circolo col suo centro nel gio E, in modo che possa girare attorno secondo il bisogno; fatto questo nel vero mom.to del mezzo giorno

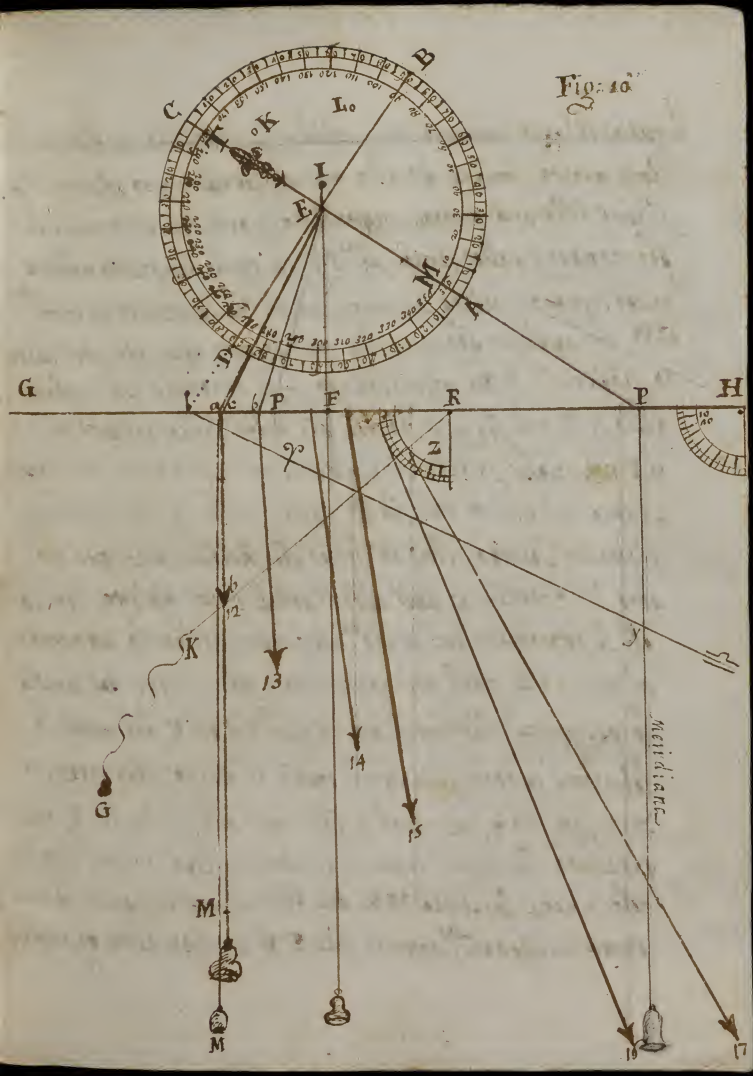
Fig: 10
B
C
K
L
I
E
M
A
D
G
H
F
R
P
Z
12
13
14
15
K
G
M
M
19
17

il quale ti sarà indicato da qualche linea meridiana, osserva dove arriva l'ombra del stilo ora affisso nel muro, osserva dico l'ogive della sua ombra, supponiamo y. ora, che termini nel pto segnato y nella linea seg.ta P.y. la quale fingiamo non sia ancor segnata, subito lascierai cadere dalla linea orizont.le GH, da qualche pto un filo con piombo attaccato, che cadendo liberam.te dritto, posi appunto il termine dell'ombra dello stile nel pto y, e sia pto pto nella linea orizontale il P, nel quale subito vi metterai un ago, tanto che stia fermo nel muro nel pto P, fatto questo aurai un filo alquanto lungo, che da una pte habbia attaccato un poco di piombo, e dall'altra abbia una asseletta, con la pte la attaccherai nel chiod.to che tiene il circolo attaccato al muro IE, quel filo partendosi dal centro del circolo lo appoggierai alla brocchetta affissa nel pto P, dal quale lo lascierai cadere liberam.te sopra il muro, che certo passerà p il pto y, che però il filo che pende dal pto P, rappresenta la vera linea meridiana. Poi gira il circolo, sinche la linea ME, del medesimo venga a cadere tutta giustam.te sotto il filo EP, ed esso sarà essattato

all'ora nella dovuta declinaz.ne, lo fermerai dunque, con un chiodetto nel pto L, overo K, e dipoi averai l'horologio come s'insegnerà. Se desiderai sapere gli gradi detto muro declinii, lascia cadere un filo col piombo dal centro del circolo E, che pto farà con la linea meridiana ME, l'angolo della declinatione MEF, cioè il filo EF, che cade a piombo dall'E centro del circolo, taglia nella circonferenza del medesimo li gradi precisi della declinaz.ne, onde vedi nell'esempio che detto filo passa i gradi 80 in circa. Si conclude dunque che detto muro declina gradi 80 da mezzo giorno, e se vorai sapere a qual parte, cioè se verso oriente, overo verso occidente, osserva che cadendo la linea meridiana rispetto al loco dello stilo F, dalla parte d'oriente, anco il muro declina verso oriente, se cadesse rispetto al loco del stilo F, dalla parte d'occidente, anche il muro declinarebbe verso occid.te

Il secondo modo per pigliare la declinatione del muro col sole è questo. La mattina nel levar del sole sia preparata nel muro dalla parte che guarda oriente la linea or

zontale, e nel medesimo tempo che il sole vuol spuntare dall'
orizonte osserva il punto ove termina l'ombra dello stile
affisso nel muro, e si segni con grand'accuratezza, che
questo punto ci darà la regola d'aggiustare il cerchio nella do-
vuta declinazione, ed ancora d'sapere quali gradi declina
la facciata sopradetta volta all'Oriente, anzi dalla declina-
zione di questa facciata verremo in cognizione della vera
declinazione di tutte le altre facciate giacche la fabrica
sia fatta in perfetto quadro.

Imaginiamoci dunque per esempio che il foglio ove è la
fig: 10 sia il muro d'una casa del quale si cerchi la de-
clinazione, volto però ad Oriente. Descritta la Linea Ori-
zontale GH, e piantato lo stilo in un punto d'essa, cioè in
F, quando luce il sole, s'osservi in qual punto della Linea Ori-
zont.le termini l'ombra dello stilo, fingiamo che termini
nel punto a, segno il punto anzi vi attacco una broccheta, dipoi
sopra F (punto dello stilo tanto alto dal medesimo F punto, lo
stilo avanza fuori del muro) colloco il centro del cerchio
E, con un ago d'acciajo, acciocchè il cerchio si possa girare

attorno al suo centro dipoi riflesso che qualità d'Orologio voglio
fare, cioè se voglio fare un Orologio Italiano che finesca le
24 al tramontar del Sole, oppure uno che termini mezz'ora
doppo che il Sole è tramontato; supponiamo, che si voglia un
Orologio che termini mezz'ora doppo il tramontare del Sole,
si guarda dunque nella tavola del nascer del Sole, calculata
secondo quest'uso, nel mese e giorno che vuoi far l'Orologio,
guarda che ora è quando nasce il Sole, e supporto che abbi
trouato nascere alle ore 12; piglierai poi la tauola suppun-
to al Polo 45.30 e fare gli Orologi Italiani, secondo l'uso
degli Orologi delle Torri, e trouerai 2 mezzo le ore 12 nella
prima casella a destra gradi 275. m: 15 attacherai dunque un
filo al centro del Circolo e lo stenderai dritto sino che
capsi il gr° a dove terminaua l'ombra del Sole nel
suo nascere, dal qual gr° lascierai cadere il filo col piom-
bo liberam.te sia il filo E a M, dipoi girerai il circolo fi-
no che detti gradi, e minuti 275.15 restino coperti dal filo
medesimo E a, che allora sarà aggiustato perfettam.te nella
sua conveniente positura, e se vuoi sapere gli gradi

il Muro declini, fatto cadere dal centro del circolo E, un filo col piombo come EF, che questo filo passerà per li gradi precisissimi della declinatione del Muro, il quale dirai che declina dal mezzo giorno, se il diametro del circolo TM, dalla parte di M, piega verso la linea orizontale, dirai che declina da Tramontana, se il medesimo diametro TM, piegasse verso la linea orizontale, dalla parte di MT, e se detto diametro fosse in tutto parallelo alla linea orizontale, allhora segno che il Muro declina tanto da mezzo giorno, quanto da Tramontana gradi 90.

In caso, che il giorno in cui vuoi pigliare la declinatione del Muro, qual pigliata potristi indugiando più ti paresse a fare l'Horologio, il sole nascesse non alla tal hora precisa; ma avanti hora, tanti minuti, bisognerebbe in tal caso, pigliare la parte proportionale tra l'hora intiera antecidente, e l'hora susseguente, e fare il computo, e trovare gli gradi, i quali hanno da far passare sotto il filo $\frac{E}{a}$. Per esempio se si trovasse che il sole nasce quel giorno a hore $12\frac{3}{4}$ si pigli nella tavola il numero che serve alle hore 12. che è 275. m. 15. ed il numero che serve alle hore 13 che è 285. m. 35. la loro differenza è gradi dieci, m. venti dunque se il sole nasce alle hore $12\frac{3}{4}$ bisognerà aggiongere

tre quarti di età differenza alli gradi 275. 15, cioè gr. 7. 45, co
auremo gr. 283 già disegno dunque girare il Cirolo, sicche ca:
da sotto il filo E a gr. 283, e così proporzionalmᵗᵉ si dourà fa:
re in ogn'altro caso, il resto tutto come sopra. Si potrebbe tro:
uare la declinazᵒᵉ del muro anco con l'Orologio Orizontale, che
sarebbe modo spedito assai; ma bisognerebbe, ò adoperare la
Calamita, ouero bisognerebbe sapere l'ora precisa, nella qle
si fà l'operatione, & però non è necessario insegnarla.

THE NEWBERRY
LIBRARY

Cone
MS
3A
26